mladí myslivci

Hravý dvojlist č. 9

Jarní osmisměrka PDF

JARNÍ OSMISMĚRKA

Tajenka : _____

M	T	J	Š	Č	D	U	H	A	A	K	O	T	O	P
R	R	O	N	Á	☀	B	J	P	T	Á	Č	E	K	P
V	A	A	E	P	S	L	U	N	Í	Č	K	O	A	E
E	V	B	K	Á	L	E	M	Č	☀	T	D	M	P	P
L	I	Á	B	Ž	E	D	A	D	Y	Z	P	O	E	☀
I	Č	Ž	E	Í	P	U	,	P	Í	E	M	T	Ř	S
K	K	A	R	Ž	I	L	Í	N	L	L	R	K	N	R
O	A	L	U	A	Č	E	H	I	Á	K	E	Ě	O	K
N	D	E	Š	L	K	A	Š	Z	L	S	Ž	☀	T	Á
O	S	Č	K	A	A	K	K	Í	Á	E	E	U	E	Č
C	☀	V	A	P	A	A	Č	L	N	R	L	V	L	Á
E	N	A	R	C	I	S	Ě	K	O	I	B	O	Á	T
O	T	E	P	L	O	B	A	U	P	Z	Í	S	T	K
A	P	R	Í	L	K	U	Ř	Á	T	K	O	A	K	O
Y	K	Č	I	Č	O	K	N	K	E	L	Ý	T	O	M

SNĚŽENKA, HNÍZDO, TULIPÁN, ŽÍŽALA, SLEPIČKA, APRÍL
SLUNÍČKO, PTÁČEK, DUHA, KÁČÁTKO, KOČIČKY, BĚLÁSEK
BERUŠKA, VELIKONOCE, TRAVIČKA, PETRKLÍČ, PAMPELIŠKA, ŠNEK
ČÁP, POMLÁZKA, MOTÝLEK, TELÁTKO, VČELA
BLEDULE, NARCIS, KUŘÁTKO, TULIPÁN, VOSA
POTOK, ŽÁBA, ČMELÁK, TEPLO, MRAK



Listnaté stromy na podzim opadávají, aby se v zimě zbytečně nevysilovaly vypařováním vody. Přiřaďte obrázky listů a názvů dřevin, ze kterých spadly. Vybarvěte je podzimními barvami. Znáte druhová jména těchto dřevin?

A



B



C



D

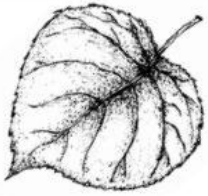

E

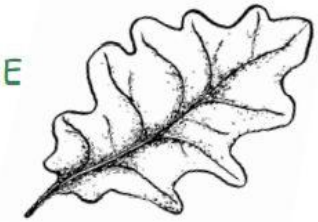

F



1 LÍPA 2 BUK 3 OLŠE 4 JAVOR 5 DUB 6 HABR

HOUBY

Pracovní list

1. Napiš názvy hub.



1 _____ 2 _____ 3 _____

4 _____ 5 _____

2. Vybarvi muchomůrku.



3. Popiš stavbu těla houby.

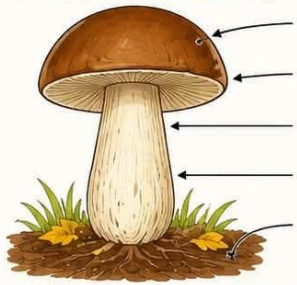

klobouk

lupeny

prsten

třeň

pochva

podhoubí

VYSVĚTLI:
Co je to podhoubí a k čemu slouží?
.....
.....

4. Spoj název houby s obrázkem.

hřib • • 

babka • • 

muchomůrka • • 

žampion • • 

bedla • • 

5. Poznáš jedlé a nejedlé houby? Zakroužkuj.



PAMATUJ!
Některé houby jsou jedlé, některé jedovaté. Nejíme houby, které dobře neznáme!